БЛАНК ЗАДАНИЙ

ЗАДАНИЯ
для выявления интеллектуально одаренных учащихся по учебному предмету «Обществоведение»

РАЗДЕЛ А
ЗАДАНИЯ С ОДНИМ ПРАВИЛЬНЫМ ОТВЕТОМ

1. Исключите лишнее из логического ряда:
1) буддизм; 2) ислам; 3) иудаизм; 4) христианство.

2. Изучите данные Национального статистического комитете Республики Беларусь, сделайте вывод, определив правильный вариант ответа.

Суммы предоставленной государственной адресной помощи

	2011	2012	2013	2014	2015	2016	2017
Численность граждан, которым предоставлена государственная адресная социальная помощь, тыс. человек.	**220,2**	**281,9**	**200,7**	**217,8**	**251,3**	**290,4**	**310,2**
Из них:							
ежемесячное социальное пособие	**118,6**	**136,4**	**70,3**	**57,1**	**60,8**	**75,1**	**91,3**
единовременное социальное пособие	**86,1**	**39,1**	**28,7**	**29,5**	**38,1**	**44,0**	**45,6**
Средний размер ежемесячного социального пособия, тыс. рублей	**88,5**	**184,9**	**181,0**	**277,6**	**311,6**	**34,2**[1]	**40,4**
[1]*С учетом деноминации 2016 г. (уменьшение в 10 000 раз)*							

По данным таблицы можно сделать вывод о том, что за 7 лет:
1) социальная защита населения значительно уменьшилась;
2) государственную социальную адресную помощь получило большее количество человек;
3) единовременное социальное пособие уменьшилось в два раза;
4) ежемесячное социальное пособие практически осталось на уровне 2011 г.

3. Какой из перечисленных типов социального действия, по мнению М.Вебера, наиболее характерен для современного общества:
1) традиционный; 2) аффективный; 3) перформативный; 4) целерациональный.

4. Что объединяет искусство и религию как формы духовной культуры общества:
1) вера в трансцендентное; 3) аксиологическая ориентация;
2) эстетическое чувство; 4) категориальное мышление.

5. Проанализируйте график изменения предложения мобильных телефонов на потребительском рынке. Сдвиг кривой из положения S1 в положение S2 может быть вызван:

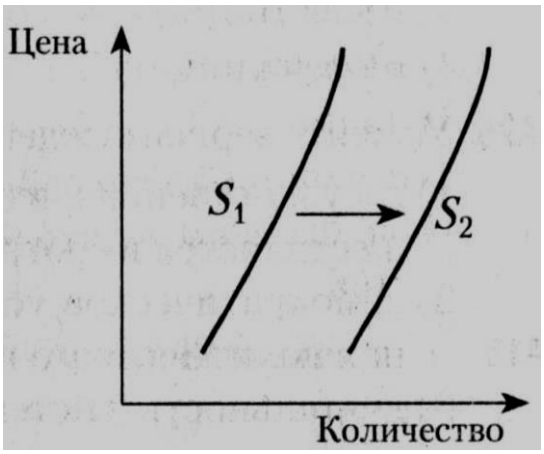

1) внедрением новых технологий производства мобильных телефонов;
2) ростом цен на комплектующие изделия для мобильных телефонов;
3) повышением издержек при производстве и оказании соответствующих услуг;
4) повышением спроса на данную продукцию.

6. Чувственный опыт иначе называется:
1) эмпирей; 2) эмпирия; 3) эмиссия; 4) эмитент.

7. Автором гелиокосмической теории, описывающей влияние Солнца и космоса на жизнь человека и общества, является:
1) В.Вернадский; 2) К.Маркс; 3) К.Циолковский; 4) А.Чижевский.

8. Первоначала мира в древнекитайской культуре назывались:
1) Янь и Инь; 2) Ян и Инь; 3) Ян и Ин; 4) Янь и Ин.

9. Общее, что присуще любому конфликту – это:
1) эмоциональная неприязнь оппонентов;
2) непонимание сторонами друг друга;
3) столкновение равнонаправленных интересов;
4) различие в темпераментах оппонентов.

10. Ребенок, согласно Закону Республики Беларусь «О правах ребенка», имеет право выбирать, с кем из родителей, случае их развода, он хочет проживать:
1) с 10 лет; 3) с 14 лет;
2) с 12 лет; 4) с 16 лет.

11. Беря ссуду в банке, человек становится:
1) акционером; 3) дебитором;
2) кредитором; 4) предпринимателем.

12. Данное изображение характеризует сферу эстетической деятельности:
1) эстетика природы;
2) эстетика труда;
3) эстетика быта;
4) эстетика человеческих отношений.

13. Для повышения конкурентоспособности продукции в Республике Беларусь установлен целевой показатель снижения себестоимости в размере:
1) 15%; 3) 7%;
2) 10%; 4) 25%.

14. Стратегическими целями Республики Беларусь во внешней политике являются:
1) стабильность конституционного строя, защита прав и свобод граждан, равенство всех форм собственности;
2) развитие социально-ориентированного демократического правового государства;
3) стабильность конституционного строя, равенство всех форм собственности, территориальной целостности;
4) защита государственного суверенитета и территориальной целостности.

15. Определите изображение известного русского физиолога Ивана Павлова, создателя научной теории темперамента:

			
1	2	3	4

16. Осознание и познание внешней необходимости – всеобщих законов и закономерностей в мире, внутреннее принятие и следование им определяется термином:
1) детерминизм; 3) истина;
2) фатализм; 4) свобода.

17. Определите виды общения, выделенные по одному критерию:

1) доверительное и конфликтное; 3) ролевое и межличностное;
2) деловое и неформальное; 4) ролевое и конфликтное;

18. Каким из устойчивых мотивов в наибольшей степени руководствуется изображенный человек в данный момент:
1) долг; 3) целеустремленность;
2) убеждение; 4) установка.



19. Выберите верное соотношение в логических схемах (кругах Эйлера) следующих понятий, где А – диалогическое общение, В – манипулятивное общение, С - монологическое общение:

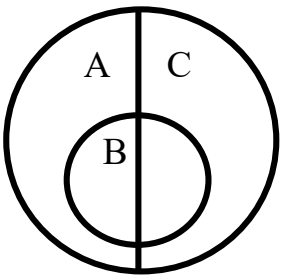

Ответ № 1.

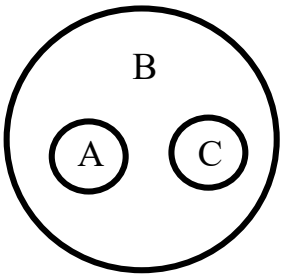

Ответ № 2.

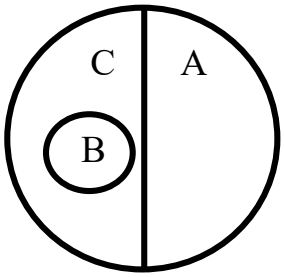

Ответ № 3.

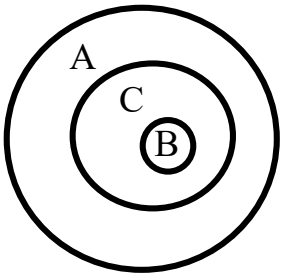

Ответ № 4

20. Потребительская корзина:
1) рассчитывается с учетом бюджета прожиточного минимума;
2) используется для расчетов минимальных размеров пенсий;
3) представляет собой научно обоснованный сбалансированный набор товаров и услуг для удовлетворения жизненных потребностей человека**;**
4) служит основным критерием отнесения граждан к малообеспеченным.

ЗАДАНИЯ С НЕСКОЛЬКИМИ ПРАВИЛЬНЫМИ ОТВЕТАМИ

21. В ходе социологического опроса жителям стран «А» и «Б» старше 30 лет задавали вопрос: «Хотите ли вы получить дополнительное образование?» Полученные результаты (ответ «да» в процентах от числа опрошенных) представлены в виде диаграммы.

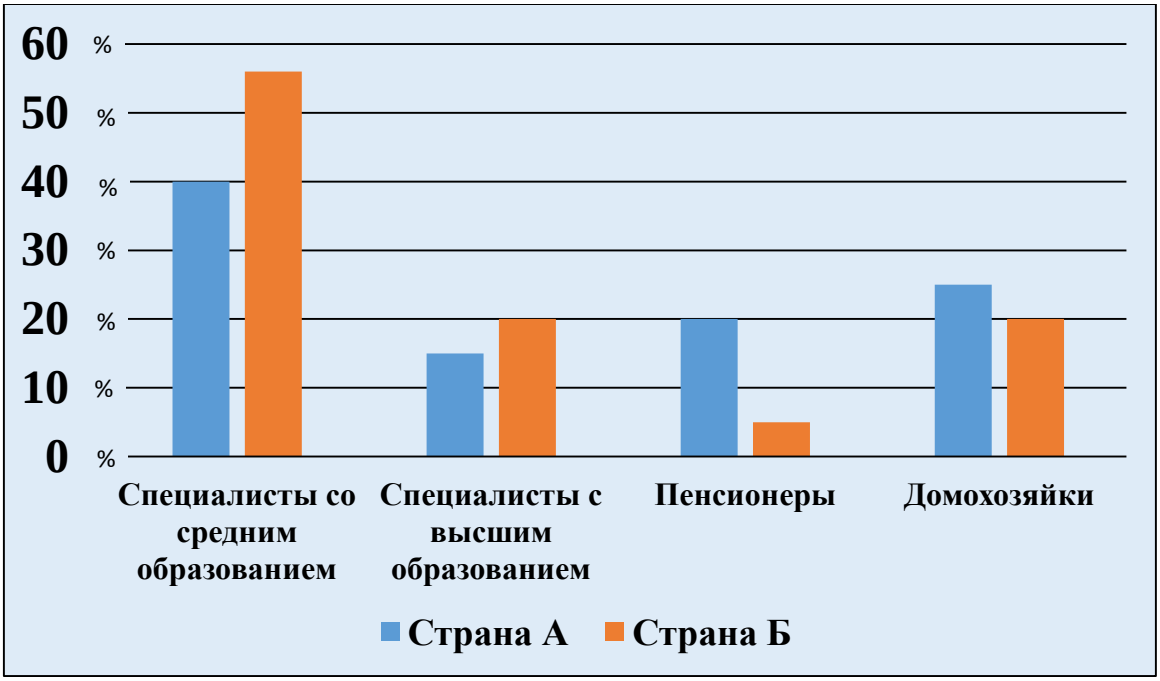

На основании диаграммы можно сделать следующие выводы:

1) в стране «А» равные доли специалистов с высшим образованием и домохозяек желают получить дополнительное образование;
2) в обеих странах специалисты со средним образованием занимают лидирующее место среди желающих получить дополнительное образование;
3) в стране «А» среди желающих получить дополнительное образование преобладают пенсионеры;
4) доля пенсионеров, желающих получить дополнительное образование, в стране «Б» меньше, чем в стране «А»;
5) в стране «Б» больше специалистов с высшим образованием, желающих получить дополнительное образование;
6) в стране «Б» среди тех, кто хочет получить дополнительное образование, доля домохозяек выше доли специалистов со средним образованием.

22. К косвенным налогам в Республике Беларусь относятся:
1) налог на прибыль;
2) налог на имущество;
3) налог на землю;
4) налог на добавленную стоимость (НДС);
5) таможенные пошлины;
6) акцизы.

23. Ставка рефинансирования национального Банка Республики Беларусь – это:
1) базовый инструмент государственного регулирования уровня процентных ставок на денежном рынке;
2) годовой доход от государственных облигаций в процентах от их стоимости;
3) основа для установления процентных ставок по операциям предоставления ликвидности банкам;
4) проценты за кредит в год, взимаемые с Правительства Республики Беларусь;

5) инструмент рынка, проценты за кредит в год, взимаемые с Национального банка Республики Беларусь;
6) налог, которым облагаются ввозимые в страну и вывозимые из нее товары.

24. Укажите отличительные особенности гениальной личности:
1) неоспоримо новаторский характер творчества;
2) необходимость существенных затрат для достижения результата;
3) чрезвычайно высокая продуктивность творчества;
4) значимые достижения в одной определенной области;
5) непреходящая актуальность творчества.

25. Местное самоуправление в Республике Беларусь осуществляется через:
1) местные Советы депутатов;
2) профессиональные союзы;
3) областные и районные исполнительные комитеты;
4) коллективы предприятий определенных районов;
5) органы территориального общественного самоуправления;
6) политические партии и общественные организации.

ВЫБЕРИТЕ ПРАВИЛЬНОЕ СУЖДЕНИЕ

26. Инфляция в рыночной экономике:
А) способная выполнять стимулирующую роль;
Б) в условиях обращения полноценных денег невозможна.
1) верно А; 2) верно Б; 3) верны оба суждения; 4) оба суждения неверны.

27. Среди основных добродетелей древнегреческие мудрецы выделяли:
А) мудрость и гуманизм; Б) умеренность и справедливость.
1) верно А; 2) верно Б; 3) верны оба суждения; 4) оба суждения неверны.

28. П.Сорокин полагал, что социальным пространством является:
А) человек с его внутренним миром;
Б) все народонаселение Земли.
1) верно А; 2) верно Б; 3) верны оба суждения; 4) оба суждения неверны.

29. Установка на выполнение какой-либо деятельности или достижение какого-либо результата:
А) формируется на основе прошлого опыта;
Б) всегда ясно сформулирована, отчетливо выражена в словах.
1) верно А; 2) верно Б; 3) верны оба суждения; 4) оба суждения неверны.

30. Преимущество компромисса как стратегии поведения в конфликте состоит в:
А) быстром разрешении конфликта;
Б) полном устранении причины конфликта.
1) верно А; 2) верно Б; 3) верны оба суждения; 4) оба суждения неверны.

РАЗДЕЛ В
УСТАНОВИТЕ СООТВЕТСТВИЕ

31. Установите соответствие между понятием и их содержанием:

А	Идеология	1	Общее чувственно-эмоциональное отношение к миру, связанное с преобладающим настроением
Б	Мировоззрение	2	Представления человека о свойствах и связях вещей, о некоторой упорядоченности всего, что его окружает
В	Мировосприятие	3	Обобщенное понимание человеком самого себя, окружающего мира и своей связи с миром, состоящее из его важнейших представлений и убеждений
Г	Мироощущение	4	Обобщенная характеристика ценностных ориентиров личности или общества в целом
Д	Миропонимание	5	Представление окружающего мира в идеальных образах, соответствующих реальности или ее искажающих

Ответ: А-_____; Б-_____; В-_____; Г-_____; Д-_____.

32.Установите соответствие между понятием и его содержанием:

1	Миграция	А	Добровольное или вынужденное переселение в другую страну для постоянного или временного (на длительный срок) проживания
2	Эмиграция	Б	Изменение индивидом или группой социальной позиции, места занимаемого в социальной структуре
3	Иммиграция	В	Перемещение населения с целью изменения места жительства
		Г	Въезд населения одной страны в другую на временное или постоянное проживание, рассматриваемы по отношению к стране, куда въезжают мигранты

Ответ: 1-_____; 2-_____; 3-_____ .

33. Установите соответствие между понятием и его содержанием:

1	Индивид	А	Отличительные биологические, психологические и социальные качества человека, а также его жизненный опыт
2	Личность	Б	Отдельно взятый человек как носитель определенных биологических свойств и качеств
3	Индивидуальность	В	Свойство человека субъективно отображать события объективной реальности для ориентации и взаимодействия с окружающей средой

		Г	Человек, обладающий совокупностью социальных и духовных качеств, приобретенных им в процессе возрастного развития социализации

Ответ: 1-_____; 2-_____; 3-_____ .

34. Установите соответствие между функциями рынка и их содержанием:

	Функция		Содержание
1	Регулирующая	А	Исходя из конъюнктуры рынка стремление работать более эффективно, сокращая затраты на производство товара
2	Стимулирующая	Б	Предоставление знаний, сведений, необходимых участникам рыночных отношений
3	Информационная	В	Установление соотношения между спросом и возможностями производства
4	Селективная	Г	Оперативное реагирование на изменения, происходящие в экономике
		Д	Отсев экономически слабых, нежизнеспособных участников товарно-денежных отношений и поощрение развития эффективных форм хозяйствования

Ответ: 1-_____; 2-_____; 3-_____; 4-_____ .

35. Установите соответствия между государственными органами (должностными лицами) и принимаемыми ими правовыми актами:

Государственные органы (должностные лица)	Правовые акты
1. Национальное собрание	А) Заключение
2. Президент	Б) Закон
3. Конституционный Суд	В) Приговор
4. Совет Министров	Г) Постановление
5. Минский областной суд	Д) Указ

Ответ: 1-_____, 2-_____, 3-_____, 4-_____, 5-_____.

36. Выберите из предложенных ниже вариантов правильные и заполните пропуски нужными буквами (каждой цифре соответствует только одна буква):

«Стакан наполовину полон или наполовину пуст» - общеупотребительное выражение, часто используемое в качестве вопроса. В зависимости от ответа на данный вопрос человека обычно описывают как 1_____ или 2_____. а) пессимиста; д) нонконформиста; б) индивидуалиста; е) оптимиста;	**2** **1** 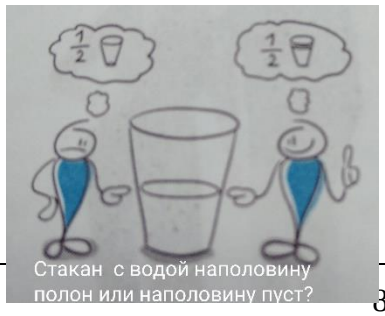

в) коллективиста; ж) альтруиста; г) конформиста; з) эгоиста	

ОПРЕДЕЛИТЕ ТЕРМИН, ПОНЯТИЕ

37. Договор между юридическими или физическими лицами о займе или ссуде называют _____.

38. Устоявшееся отношение к происходящим событиям, выработанное на основе сравнения их с внутренними идеалами, называют_____.

39. Она не просто отличается от доминирующей культуры, но противостоит ей, находится в конфликте с доминирующими ценностями и нормами, носит название_____.

40. Определите социально-психологический эффект восприятия партнера по общению по следующим характеристикам:
1) формируется в отношении знакомого человека;
2) проявляется в восприятии новой информации о человеке как более значимой для формирования мнения о нем.
ОТВЕТ_____.

ВЫПОЛНИТЕ ЗАДАНИЯ

41. Дайте социально-психологическую характеристику изображенного явления, используя известные Вам понятия:

Вид группы: _____
_____
_____
_____

Вид общения:_____
_____

Способ взаимодействия: _____
_____

42. 1) Прочитайте приведенные ниже высказывания. В них говорится об одном и том же слове, являющимся обществоведческим понятием. Назовите это понятие и дайте ему определение.

«Это капризное существо, расположенное к тем, кто потакает его прихотям, а вовсе не к тем, кто способствует его развитию». В.Г.Кротов

«Состоит из двух классов людей: тех, у которых есть обед, но нет аппетита; и тех, у которых отличный аппетит, но нет обеда». Н. Шамфор

«Похоже на волнующееся море, в котором отдельные люди, подобно волнам, окруженные себе подобными, постоянно сталкиваются друг с другом, возникают, растут и исчезают, а море –…вечно бурлит, волнуется и не умолкает...»

П.А.Сорокин

Ответ:_____
_____
_____
_____
_____

2) Дайте определение понятию.
Политическая система общества – _____
_____
_____
_____
_____
_____

3) Что является главным компонентом и центральным институтом политической системы общества?
Ответ:_____

4) Запишите основные признаки главного компонента политической системы общества.
Ответ:_____
_____

43. Если вы согласны с утверждением, поставьте знак напротив утверждения в колонке «Да», если не согласны - впишите знак «+» в колонке «Нет».

№ п/п	Утверждение	Да	Нет
1	Все социальные роли человека предопределяются при его рождении		
2	Автором материалистического понимания истории является К.Маркс		
3	Маргиналами называют социальные группы, занимающие промежуточное положение между устойчивыми общностями людей		
4	Государственный протекционизм имеет своей целью защиту отечественных товаропроизводителей		
5	Фатализм – вера в предопределенность бытия		

44. Внимательно изучите приведенные ниже портреты ученых прошлого, их высказывания.

Задание 1) Соотнесите высказывание, автора и портрет и впишите под портретами в таблице.

1 	2 	3 
Имя ученого_____ _____	Имя ученого_____ _____	Имя ученого_____ _____
Высказывание _____	Высказывание _____	Высказывание _____

Имена ученых: **Зигмунд Фрейд, Карл Рэнсом Роджерс, Карл Густав Юнг.**

Высказывания: **А)** «Психоанализ показал нам, что каждый человек в своей бессознательной душевной деятельности обладает аппаратом, который дает ему возможность толковать реакции других людей, т.е. устранять искажения, которые другой человек совершил в выражениях своих чувств».

Б) «В психике индивида человека может доминировать одна из функций – экстровертированное или интровертированное мышление, чувство, ощущение, интуиция, при этом в психике находилось место и для других функций, которые играли вспомогательную роль или вытеснялись в бессознательное».

В) «Человек должен суметь развить систему представлений о себе или Я-образ, которая способна… находиться в гармонии с его собственными глубинными чувствами и переживаниями. Этот вид личностного развития может происходить наиболее легко в случае, когда данный человек имеет в своем окружении других людей, которые могут обеспечить «безусловное положительное отношение»: тип любви, принятия, и понимания внутреннего бытия индивидуума».

Задание 2) Что такое «Я-концепция» и как она влияет на жизнь человека?_____

_____

_____

_____

_____

_____

_____

_____

_____
_____
_____
_____
_____
_____
_____
_____
_____
_____
_____
_____
_____
_____
_____
_____
_____
_

45. Внимательно рассмотрите фотографии и выделите сходства и различия в представленных ситуациях:

Фото № 1	Фото № 2

А) Определите сходство малых групп на данных фотографиях через конкретный термин.
Ответ:_____

Б) Определите различия малых групп посредством видов установленного вами термина (понятия) и подходящих примеров.
Ответ: фото № 1 – _____;

фото № 2 – _____.

46. Определите области повседневной культуры, представленные на плакатах:

А_____ Б_____ В_____

А

Б

В

47. Запишите пропущенные элементы в схему.

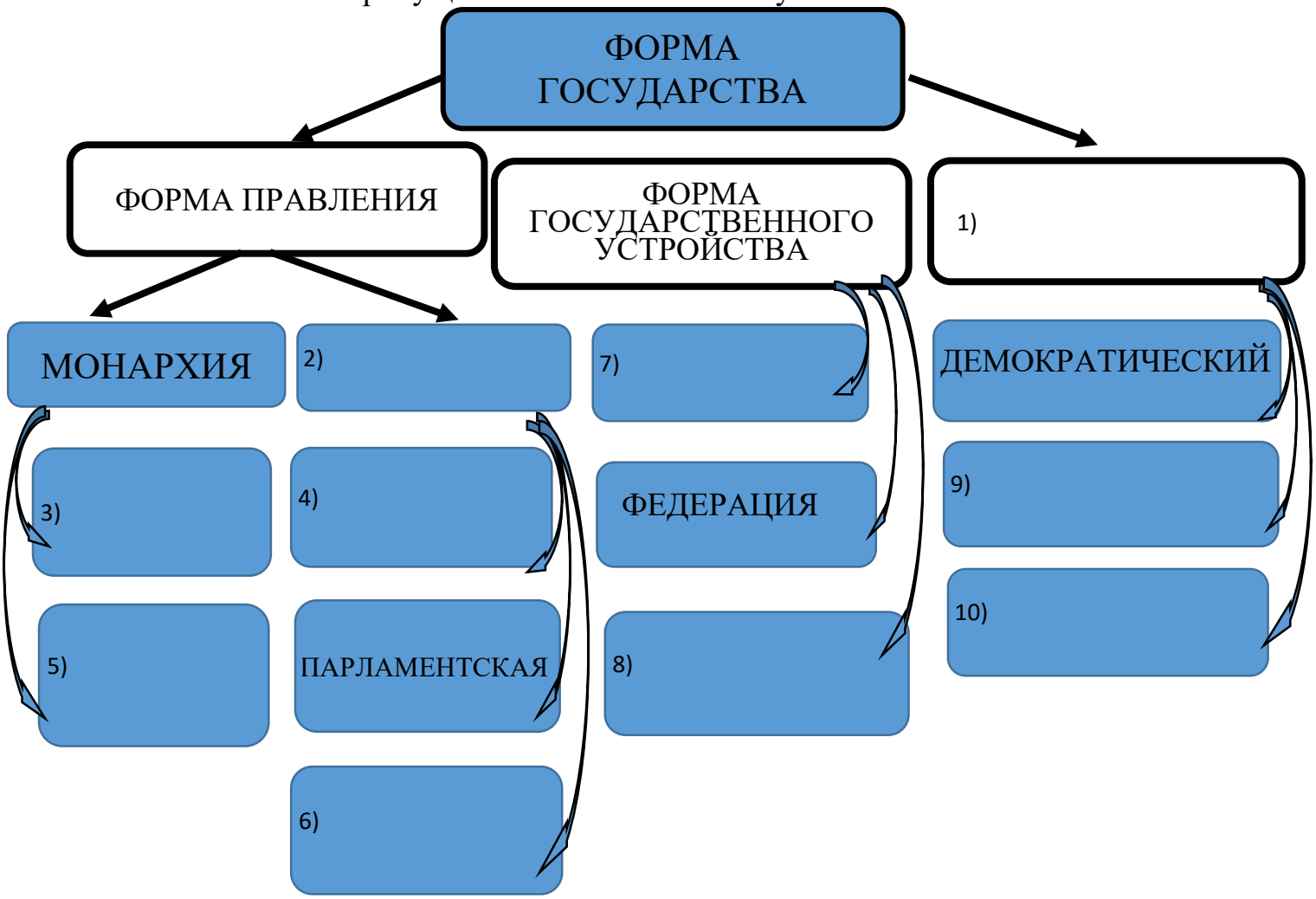

48. Изучите изображения 2-х ценных бумаг.

1). Определите, к какому виду ценных бумаг относится каждое изображение, и запишите рядом название ценной бумаги.

А) _____

Б) _____

2). Используя определения и знания о характерных чертах ценных бумаг, поясните, по каким признакам вы отнесли изображения к тому или иному виду ценных бумаг.

А) _____

_____

_____

_____

_____

Б) _____

_____

3. Объясните, почему в истории экономического развития обществ возникли указанные выше виды ценных бумаг. Почему было удобно их использовать?
Ответ: _____

49. Изучите текст и ответьте на поставленные вопросы.

В последнее время в мире быстро распространяются цифровые технологии. Интернет, мобильные телефоны и прочие средства для сбора и хранения информации оказывают сильное влияние на экономическую деятельность. Без цифровых технологий сейчас не обходятся практически никакие экономические операции. Тем не менее, у цифровой экономики есть и недостатки. Некоторые эксперты считают, что использование таких технологий может замедлить экономический рост, привести к сокращению инвестиций в новые технологии, к появлению влиятельных деловых кругов и возникновению новых рисков.

1) Почему использование цифровых технологий может замедлить экономический рост? Приведите **два** различных примера, подтверждающих ваш ответ.

Ответ:_____

_____

_____

2) Почему использование цифровых технологий может привести к появлению влиятельных деловых кругов или к сокращению инвестиций в новые технологии? Приведите пример, подтверждающий ваш ответ.

Ответ:_____

_____

_____

_____

_____

_____

_____

_____

_____

_____

_____

_____

_____

_____